WIOSENNA MATEMATYKA

ZADANIA Z TREŚCIĄ

1.W OGRÓDKU ROSŁO 5 KROKUSÓW I 3 PRZEBIŚNIEGI. ILE KWIATKÓW ROSŁO W OGRÓDKU ?



2. NA WIOSENNĄ ŁĄKĘ POWRÓCIŁO Z CIEPŁYCH KRAJÓW 7 BOCIANÓW I 3 ŻURAWIE. ILE PTAKÓW BYŁO NA ŁĄCE?





3. NAD STAWEM SIEDZIAŁO 8 ŻABEK. PRZYLECIAŁ BOCIAN I WYSTRASZYŁ 3 ŻABKI, KTÓRE WSKOCZYŁY DO STAWU. ILE ŻABEK ZOSTAŁO?



© Can Stock Photo - csp39424738

GDZIE JEST WIĘCEJ ?

WSTAW ZNAKI <,>,=

3 …. 4

5 …. 6

8 …. 10

6 …. 6

7 …. 8

9 …. 6

4 …. 2

Odkoduj poniższe wyrazy:

a	d	e	k	m	o	r	t	w
							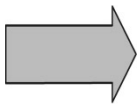	



Zakoduj wyrazy:

K O T

D O M

DZIECKO ORIENTUJE SIĘ W SCHEMACIE WŁASNEGO CIAŁA

Zaznacz kropkami w podanym kolorze następujące części ciała: **oczy** – niebieski**, szyja**- czerwony**, łokcie**-pomarańczowy, **brzuch** -zielony**, kolana**- żółty , **palce nóg**- brązowy



CO JEST CIĘŻSZE, A CO LŻEJSZE?

Otocz pętlą: zieloną lekkie rzeczy a czerwoną ciężkie







Zaznacz zieloną kropką to co w danej parze jest lżejsze a czerwoną to co jest cięższe.


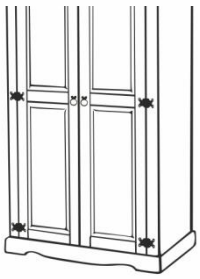

ODWZOROWANIE ZNAKÓW GRAFICZNYCH I FIGUR GEOMETRYCZNYCH

Dokończ obrazek

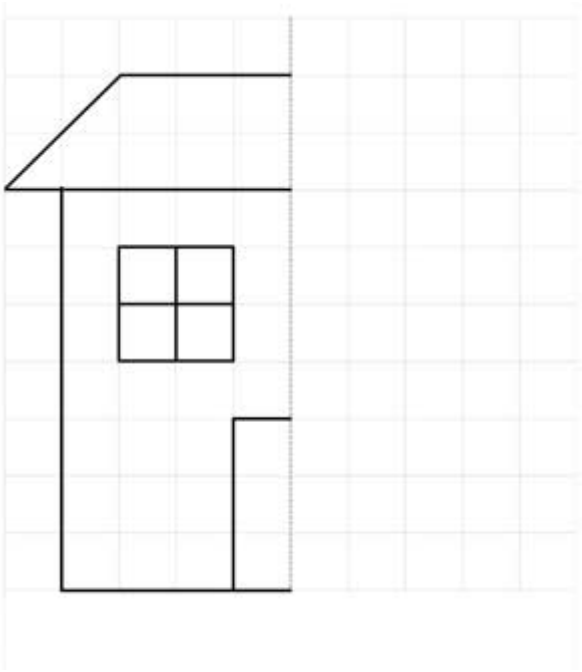

Narysuj pod spodem taki sam zestaw znaków

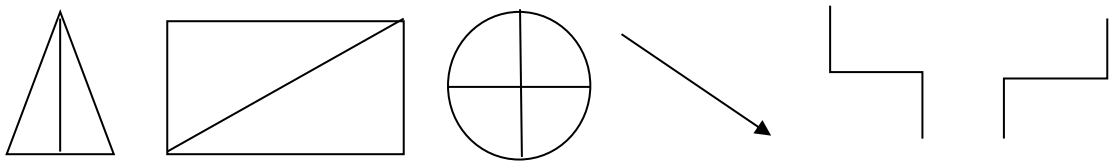

UKŁADANIE SZEREGÓW , OKREŚLANIE WIELKOŚCI - duży mały,- większy mniejszy

Połącz gwiazdki od najmniejszej do największej


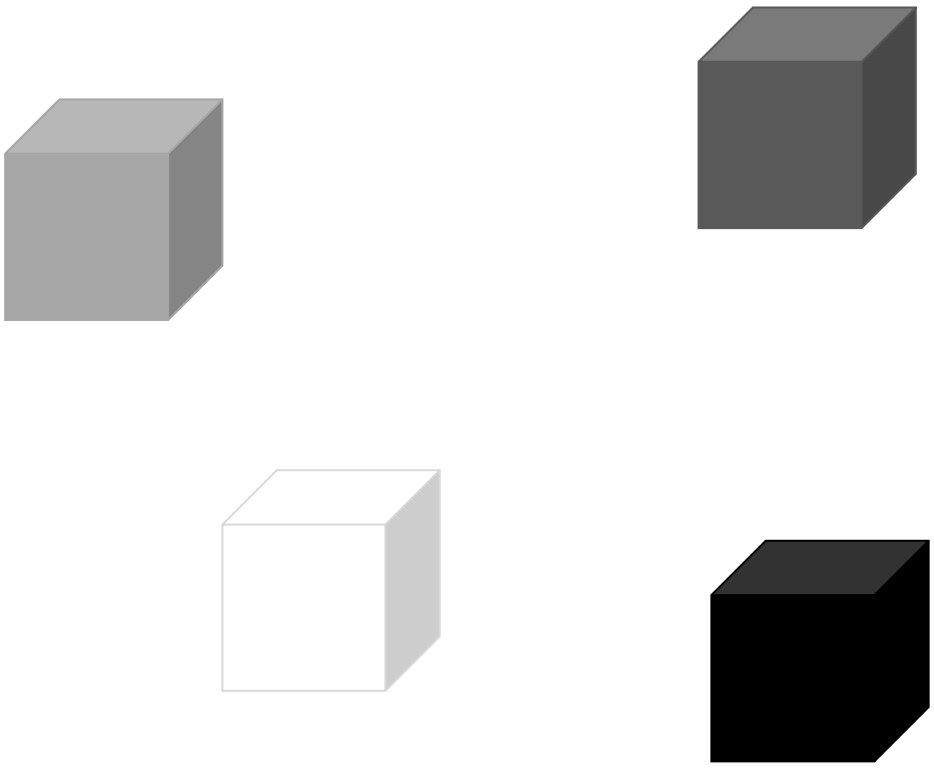
Połącz klocki od najciemniejszego do najjaśniejszego